Приложение №1

БИЛЕТЫ ДЛЯ ОБУЧАЮЩИХСЯ 1-4 КЛАССОВ

1

Как должен поступить пешеход в этой ситуации?
1. Пройти перед автомобилем, убедившись, что он остановился и уступает Вам дорогу.
2. Пройти первым.
3. Уступить автомобилю.

2

Как называется этот дорожный знак?
1. Пешеходная дорожка.
2. Пешеходный переход.

3

Как называется этот дорожный знак?
1. Велосипедная дорожка.
2. Движение на велосипедах запрещено.
3. Стоянка для велосипедов.

4

Как называется этот дорожный знак?
1. Надземный пешеходный переход.
2. Подземный пешеходный переход.
3. Движение пешеходов запрещено.

5

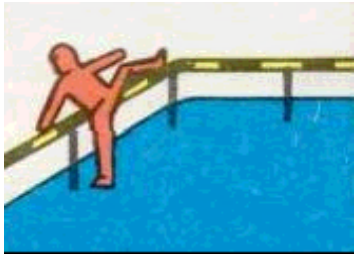

Разрешено ли переходить дорогу в местах, где есть пешеходные ограждения?
1. Разрешено, если нет движущихся транспортных средств.
2. Запрещено.

6

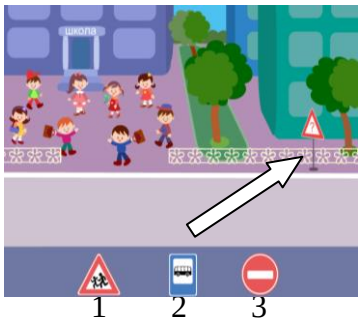

Выбери один из знаков, который подходит к картинке.

7

Как вести себя при переходе проезжей части в ненастную погоду?

1. Воздержаться от перехода до окончания дождя или снегопада.
2. Дождаться зеленого сигнала светофора и, не обращая внимание на погоду, перейти проезжую часть.
3. Быть особенно внимательным, при переходе на зеленый сигнал светофора, если на улице сыро или скользко, машина не может резко остановиться, даже если водитель сразу нажмет на тормоз.

8



Как безопасно переходить дорогу, выйдя из автобуса?

1. Сзади автобуса.
2. Спереди автобуса.
3. Дождаться когда автобус отойдет от остановки на достаточное расстояние и перейти дорогу.

9

Как называется этот дорожный знак?

1. Движение велосипедов запрещено.
2. Велосипедная дорожка.

10

Как называется этот дорожный знак?

1. Пешеходный переход.
2. Пешеходная дорожка.
3. Движение пешеходов запрещено.

11

К какой группе относится дорожный знак?

1. Знаки приоритета.
2. Предупреждающие знаки.
3. Запрещающие знаки.
4. Информационные знаки.

12

Где разрешается кататься на санках и лыжах?

1. По дороге, предназначенной для пешеходов.
2. По правой стороне проезжей части.
3. В специально отведенных местах для массового отдыха, где нет опасности выезда на проезжую часть.

13

Можно ли переходить дорогу?

1. Можно перейти дорогу.
2. Можно, убедившись, что транспорт остановился.
3. Нельзя, нужно пропустить транспортное средство.

14



Что должны, по возможности, предпринять пешеходы при движении по дорогам в темное время суток и в условиях недостаточной видимости?

1. Надеть яркую нарукавную повязку.
2. Прикрепить к своей одежде световозвращающие элементы.

15

Как называется этот дорожный знак?

1. Стоянка автотранспорта.
2. Место стоянки легковых такси.
3. Место остановки трамвая.
4. Место остановки автобуса и (или) троллейбуса.

16

Где нужно ожидать общественный транспорт?
1. Транспорт нужно ждать на остановке, при этом ни в коем случае нельзя выходить на проезжую часть!
2. В любом месте.
3. На проезжей части.

17

Разрешается ли ребенку в возрасте от 7 до 11 лет ехать на переднем сиденье легкового автомобиля?
1. Разрешается, пристегнувшись ремнем безопасности.
2. Разрешается, пристегнувшись в автокресле (в детском удерживающем устройстве, соответствующем весу и росту ребенка).

18

1 2

Какой из этих дорожных знаков разрешает переход проезжей части именно в том месте, где он установлен?

19



Можно ли садиться и выходить из автомобиля со стороны проезжей части?
1. Можно садиться и выходить из автомобиля со стороны тротуара или обочины после полной остановки транспортного средства.
2. Можно садиться и выходить из автомобиля в любом месте, где бы он остановился

20

Как называется этот дорожный знак?
1. Место для детских игр.
2. Жилая зона.
3. Место для стоянки автомобилей.

ОТВЕТЫ НА ВОПРОСЫ К БИЛЕТАМ ДЛЯ ОБУЧАЮЩИХСЯ 1-4 КЛАССОВ

1.	**1**
2.	**2**
3.	**2**
4.	**1**
5.	**2**
6.	**1**
7.	**3**
8.	**3**
9.	**2**
10.	**2**

11.	**3**
12.	**3**
13.	**2**
14.	**2**
15.	**4**
16.	**1**
17.	**2**
18.	**2**
19.	**1**
20.	**2**

БИЛЕТЫ ДЛЯ ОБУЧАЮЩИХСЯ 5-8 КЛАССОВ

1. Как называется этот дорожный знак?

1.Пешеходный переход.
2. Движение пешеходов запрещено.
3.«Пешеходная дорожка».

2 . С какого возраста можно передвигаться в автомобиле на переднем пассажирском сидении пристегнувшись ремнями безопасности?

1.	2.	3.	4	5
с 8 лет	с 10 лет	с 12 лет	с 14 лет	с 16 лет

3.Как должен вести себя водитель велосипеда подъехав к пешеходному переходу?

1.Велосипедист должен спешиться и руководствоваться Правилами дорожного движения для пешеходов?
2.Осмотревшись, дождавшись зеленого сигнала светофора можно переезжать дорогу на велосипеде по пешеходному переходу.

4. С какой стороны регулировщика разрешен переход?

1. За спиной регулировщика, убедившись, что транспорт вас пропускает.
2. Переход запрещен.
3. В любом месте по пешеходному переходу.

5. Как нужно себя вести, когда рука регулировщика поднята вверх?

1. Должны остановиться все транспортные средства и пешеходы. Если пешеход при подаче сигнала находился на проезжей части, то он должен ее освободить, а если это невозможно остановиться на линии, разделяющей транспортные потоки противоположных направлений.
2. Пешеходы могут продолжать движение без остановки.
3. Водители могут продолжать движение без остановки.

6. Кто имеет преимущественное право на движение?



1. Водитель велосипеда.
2. Водитель автомобиля.

7. Где нужно ожидать общественный транспорт?

1. В любом месте.
2. На проезжей части.
3. Транспорт нужно ждать на остановке, при этом ни в коем случае нельзя выходить на проезжую часть!



8. Можно ли переходить проезжую часть в зоне видимости пешеходного перехода?

1. Можно
2. Нельзя.
3. Можно, если пропустить транспорт.

9. Имеют ли пешеходы преимущественное право перехода?

1. Имеют.
2. Не имеют.

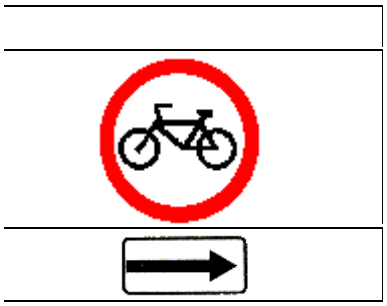

10. Данный знак обозначает:

1. Движение велосипедисту направо запрещено.
2. Движение велосипедисту запрещено, кроме поворота направо.
3. Движение на велосипедах запрещено.

11.Поставить под номером знака правильный ответ.

1. Велосипедная дорожка.
2. Пешеходный переход.
3. Железнодорожный переезд без шлагбаума.
4. Движение пешеходов запрещено.
5. Движение на велосипедах запрещено.
6. Пешеходная дорожка.

1 2 3 4 5

12. Где можно кататься, используя современные средства передвижения: гироскутеры, моноколеса, сигвеи, электросамокаты.

1. Только в специально отведенных местах, на любой ровной поверхности: на асфальтовых или бетонных площадках, дорожках, аллеях, в скверах, парках, но обязательно вдали от транспортных средств и мест скопления пешеходов, соблюдая меры предосторожности
2. Передвигаться по краю проезжей части.

13. В каком месте разрешается пешеходам пересекать проезжую часть при отсутствии в зоне видимости перекрестка, пешеходного перехода?

1. Переходить дорогу под прямым углом к краю проезжей части на участках без разделительной полосы и ограждений там, где она хорошо просматривается в обе стороны.
2. На перекрестках по линии тротуаров или обочин.
3. Во всех перечисленных местах.

14. В каком из этих мест пешеходу разрешено пересекать проезжую часть?

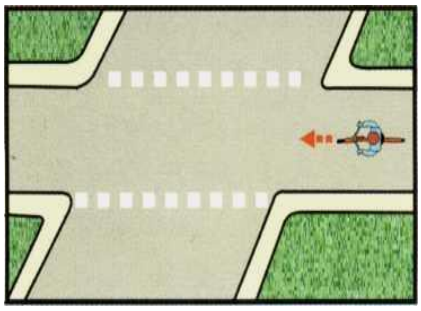

15. Разметка оранжевого цвета?

1. Является постоянной.
2. Является временной.

16. Как поступить водителю велосипеда, если перед перекрестком установлен знак «Движение без остановки запрещено»?

1. Если нет машин, проехать перекресток без остановки.
2. При проезде перекрестка быть особенно внимательным.
3. Остановиться у стоп-линии, а если ее нет - перед краем пересекаемой проезжей части, и уступить дорогу транспортным средствам, движущимся по пересекаемой дороге.

17.Как правильно обходить автобус?

1. Машины, автобусы или троллейбусы нужно обходить сзади.
2. Подождать, когда транспорт отъедет от остановки, тогда дорога будет хорошо видна в обе стороны, после этого переходить дорогу.

18. **Как называется этот дорожный знак?**

1. Место для детских игр.
2. Жилая зона.
3. Место для стоянки автомобилей.

19. С какого возраста разрешается управлять велосипедом по дорогам?

1. с 12 лет.
2. с 15 лет.
3. с 14 лет.

20. **С какого возраста и при каких условиях разрешено передвигаться на мопеде, скутере?**

1.Управлять мопедом или скутером разрешено только после достижения 16 –ти летнего возраста и при наличии водительского удостоверения категории «М», т.е. после обучения навыкам вождения в автошколе, чтобы не подвергать опасности не только свою жизнь, но и жизнь других участников дорожного движения.
2.Можно управлять не имея навыков вождения и водительского удостоверения категории «М».

ОТВЕТЫ НА ВОПРОСЫ К БИЛЕТАМ ДЛЯ ОБУЧАЮЩИХСЯ 5-8 КЛАССОВ:

1.	**2**
2.	**3**
3.	**1**
4.	**1**
5.	**1**
6.	**2**
7.	**3**
8.	**2**
9.	**1**
10.	**1**
11.	**1-3, 2-2, 3-4, 4-5, 5-6**
12.	**1**
13.	**1**
14.	**3**
15.	**2**
16.	**3**
17.	**2**
18.	**2**
19.	**3**
20.	**1**

БИЛЕТЫ ДЛЯ ОБУЧАЮЩИХСЯ 9-11 КЛАССОВ

1. Что означает термин «Проезжая часть»?

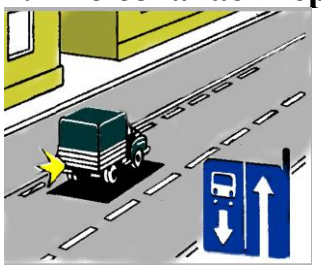

1. Расстояние между зданиями, включая и тротуары.
2. Часть дороги, предназначенная для движения всех участников дорожного движения.
3. Элемент дороги, предназначенный для движения безрельсовых транспортных средств.

2. Какой из этих знаков обозначает место, где можно переходить дорогу?

1

2

1. Знак, обозначенный номером 1.
2. Знак, обозначенный номером 2.
3. Оба знака разрешают.

3. Какой из знаков обозначает движение на велосипедах запрещено?

А

Б

1. Б.
2. А.
3. А и Б.

4. Какой знак применяется для обозначения <u>жилой</u> зоны?

1

2

3

1. Только 3.
2. Только 1.
3. Только 2.
4. Только 2 и 3.

5. Обязательно ли применение пешеходами световозвращающих элементов вне населенных пунктов в темное время суток или в условиях недостаточной видимости?



1. Да обязательно.
2. Нет, не обязательно.

6. Как безопаснее перейти дорогу в этом случае?



1. Пешеходный переход дает преимущество, пешеход может смело идти.
2. Необходимо убедиться, что мотоциклист уступает дорогу.
3. Остановиться посредине дороги и переждать пока мотоциклист проедет.

7. В каком возрасте разрешается выезжать на велосипеде на дороги общего пользования?

1. Не моложе 10 лет.
2. Не моложе 14 лет.
3. Не моложе 16 лет.

8. Велосипедистам и водителям мопедов разрешено ли двигаться по дороге без застёгнутого мотошлема?

1. Не разрешено.
2. Мотошлем не обязателен, можно не использовать.

9. Разрешается ли стоять в автобусе, осуществляющим перевозку на междугородном, горном, туристическом или экскурсионном маршруте и при организованной перевозке группы детей (школьном автобусе)?

1. Разрешается при отсутствии свободных мест.
2. Разрешается при движении со скоростью не более 40 км/ч.
3. Запрещается, число перевозимых людей не должно превышать количество оборудованных для сидения мест.

10. Кому должны подчиняться водители и пешеходы, если сигналы регулировщика противоречат сигналам светофора?



1. Только сигналам светофора
2. Только сигналам регулировщика

11. Велосипедист проедет перекресток:

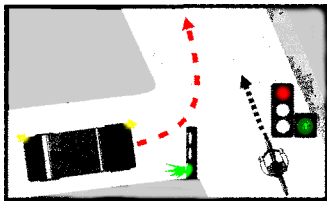

1. Первым.
2. Вторым.

12. Разрешается ли перевозка пассажиров на велосипеде в возрасте до 7 лет?

1. Разрешается перевозка детей до семи лет на специально оборудованном для них месте (дополнительном сидении).
2. Разрешается, посадив ребенка перед собой.
3. Перевозка детей-пассажиров запрещена.

13. С какого возраста разрешается обучать вождению на легковом автомобиле?

1	2	3	4
с 14 лет	с 15 лет	с 16 лет	с 18 лет

14. Где должно проводиться первоначальное обучение вождению транспортных средств?

1. На проезжей части.
2. В населенных пунктах, где нет большого количества транспортных средств.
3. На закрытых площадках или автодромах.

15. Водитель и пассажир транспортного средства, оборудованного ремнями безопасности, обязаны быть пристегнуты:

1. Только при движении по горным дорогам.
2. Только при движении вне населенных пунктов.
3. Во всех случаях при движении транспортного средства.
4. Только при движении по автомагистралям.

16. Подача сигнала водителю транспортного средства велосипедистом указателями поворота или рукой должна производиться заблаговременно:

1. На расстоянии 1 метра от транспортного средства в населенных пунктах и 1 метра – вне населенных пунктах.
2. На расстоянии не менее 15 метров от транспортного средства в населенных пунктах и 30 метрах – вне населенных пунктах.
3. Подача сигнала водителю транспортного средства велосипедистом необязательна.

17. С какого возраста наступает административная ответственность за нарушений правил дорожного движения?

1. с 14 лет.
2. с 16 лет.
3. с 18 лет.

18. С какого возраста и при каких условиях разрешено передвигаться на мопеде, скутере?

1. С 18 лет, при наличии категории «А», после обучения навыкам вождения в автошколе.
2. Управлять мопедом или скутером разрешено только после достижения 16 – ти летнего возраста и при наличии водительского удостоверения категории «М», т.е. после обучения навыкам вождения в автошколе, чтобы не подвергать опасности не только свою жизнь, но и жизнь других участников дорожного движения.
3. Можно управлять не имея навыков вождения и водительского удостоверения категории «М».

19. По какому направлению безопаснее перейти дорогу?



1. По стрелке Б.
2. По стрелке А.

20. Как должен сигнализировать велосипедист водителю транспортного средства сигнал торможения?

1. Подается поднятой вверх левой рукой.
2. Подается поднятой вверх правой рукой.
3. Подается поднятой вверх левой или правой рукой.

ОТВЕТЫ НА ВОПРОСЫ К БИЛЕТАМ ДЛЯ ОБУЧАЮЩИХСЯ 9-11 КЛАССОВ:

№ вопроса	Ответ
1.	3
2.	1
3.	2
4.	1
5.	1
6.	2
7.	2
8.	1
9.	3
10.	2
11.	2
12.	1
13.	3
14.	3
15	3
16	2
17	2
18	2
19	2
20	3